UD4 · EL MERCADO Y SU FUNCIONAMIENTO · HISTORIETA 5

¿QUÉ PASA SI...?

Cómo cambian el precio y la cantidad de equilibrio cuando se desplazan la oferta o la demanda.

MÉTODO EN 4 PASOS: 1) ¿qué cambia? 2) ¿afecta a la oferta o a la demanda? 3) ¿se desplaza a la derecha o a la izquierda? 4) ¿cuál es el nuevo equilibrio?

1

LUCÍA
Con estos cuatro pasos sale cualquier ejercicio.

ÁLEX
¡Vamos a probarlo con cuatro casos!

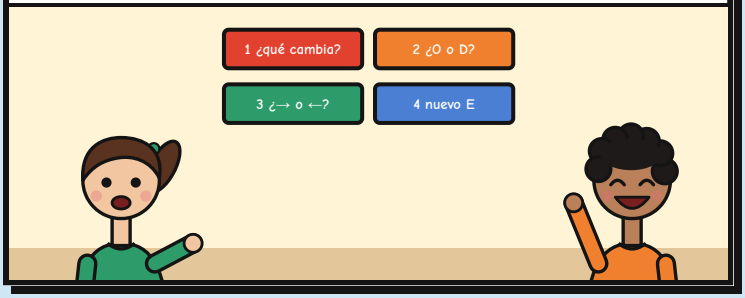

AUMENTA LA DEMANDA: se pone de moda un producto. La demanda va a la derecha: **SUBEN EL PRECIO Y LA CANTIDAD**.

2

ÁLEX
¡Todo el mundo quiere las zapatillas de moda!

LUCÍA
D a la derecha: P ↑ y Q ↑.

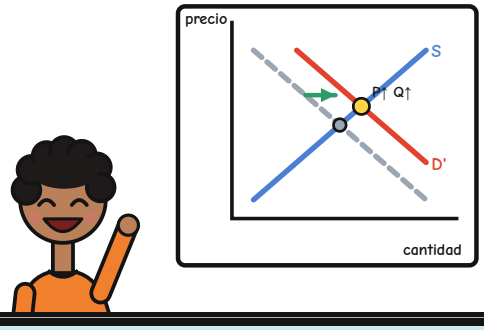

DISMINUYE LA DEMANDA: un estudio dice que un refresco es malo para la salud. La demanda va a la izquierda: **BAJAN EL PRECIO Y LA CANTIDAD**.

3

LUCÍA
Menos gente quiere ese refresco.

ÁLEX
D a la izquierda: P ↓ y Q ↓.

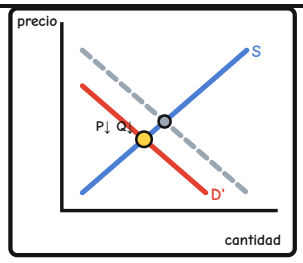

AUMENTA LA OFERTA: una nueva tecnología abarata producir placas solares. La oferta va a la derecha: **BAJA EL PRECIO Y SUBE LA CANTIDAD**.

4

ÁLEX
¡Las placas solares cada vez son más baratas!

LUCÍA
S a la derecha: P ↓ y Q ↑.

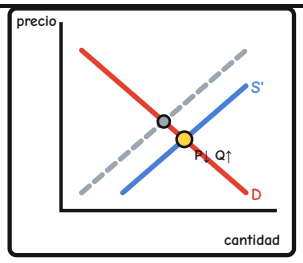

DISMINUYE LA OFERTA: una helada destruye la cosecha de naranjas. La oferta va a la izquierda: **SUBE EL PRECIO Y BAJA LA CANTIDAD**.

5

LUCÍA
Hay menos naranjas a la venta.

ÁLEX
S a la izquierda: P ↑ y Q ↓. ¡Naranjas más caras!

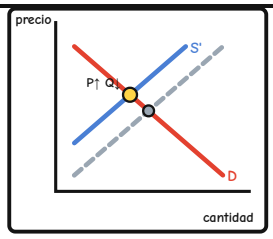

RESUMEN: los cuatro casos que caen en el examen.

6

ÁLEX
¡Me hago una chuleta... para estudiar!

D → : P ↑ Q ↑
D ← : P ↓ Q ↓
S → : P ↓ Q ↑
S ← : P ↑ Q ↓

REPASO EN 30 SEGUNDOS

Si se mueve la demanda, P y Q van en el mismo sentido; si se mueve la oferta, en sentido contrario.

PASO 1 Y 2
¿Qué cambia? ¿Afecta a la oferta o a la demanda?

PASO 3 Y 4
¿Derecha o izquierda? Nuevo equilibrio.

DEMANDA →
Moda: P ↑ y Q ↑.

OFERTA →
Tecnología: P ↓ y Q ↑.

OFERTA ←
Helada: P ↑ y Q ↓.

© Inma Lucia · Economía con Inma (economiaconinma.com) · Licencia **CC BY-NC-ND 4.0**: puedes copiarlo y compartirlo **íntegro y sin modificación**, citando la autoría y **sin fines comerciales**.